SI	**SCIENCES DE L'INGENIEUR** Test Chap. 8 - 02	Nom : _____ Prénom : _____	Note : / 20

On donne un schéma cinématique.

Q1 – Le schéma est : ☐ 2D ☐ 3D

Q2 – Compléter le graphe des liaisons et y définir les liaisons (nom, centre, axe le cas échéant)

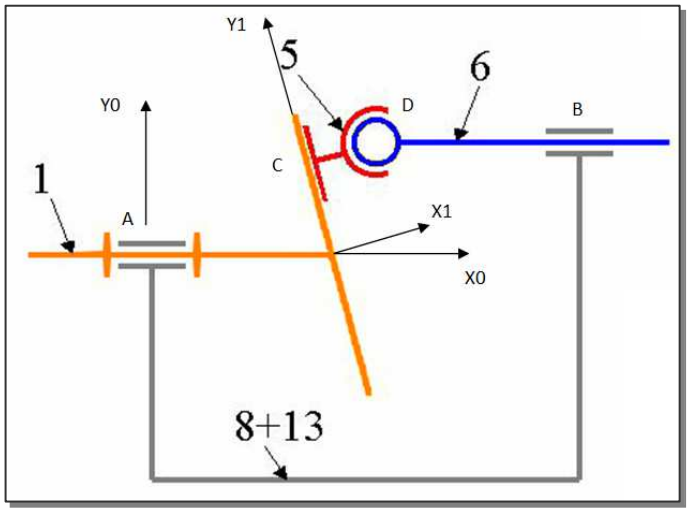

Graphe des liaisons à compléter

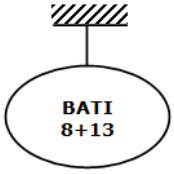

CORRECTION

Q1 – Le schéma est : ☑ 2D ☐ 3D
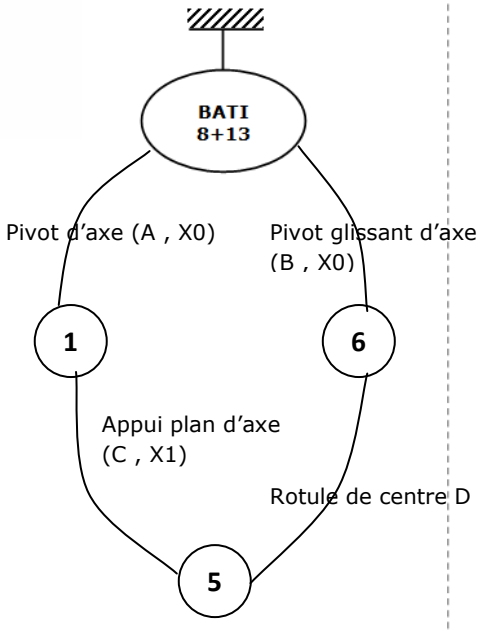
Graphe des liaisons à compléter